名前（　　）

たての長さ × よこの長さ ＝ 長方形の面積

式 3 × 4 ＝12

A. 12 cm²
（へいほうセンチメートル）

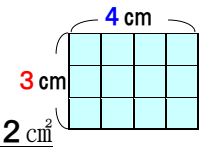

一辺の長さ × 一辺の長さ ＝ 正方形の面積

式 3 × 3 ＝9

A. 9 cm²

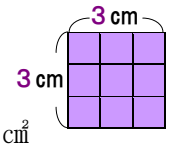

面積の公式カード①　筆算工房こつこつ

名前（　　）

たての長さ × よこの長さ ＝ 長方形の面積

式 3 × 4 ＝12

A. 12 cm²
（へいほうセンチメートル）

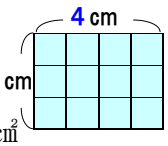

一辺の長さ × 一辺の長さ ＝ 正方形の面積

式 3 × 3 ＝9

A. 9 cm²

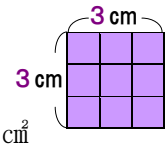

面積の公式カード①　筆算工房こつこつ

名前（　　）

たての長さ × よこの長さ ＝ 長方形の面積

式 3 × 4 ＝12

A. 12 cm²
（へいほうセンチメートル）

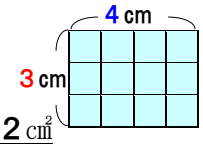

一辺の長さ × 一辺の長さ ＝ 正方形の面積

式 3 × 3 ＝9

A. 9 cm²

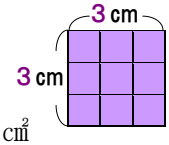

面積の公式カード①　筆算工房こつこつ

名前（　　）

たての長さ × よこの長さ ＝ 長方形の面積

式 3 × 4 ＝12

A. 12 cm²
（へいほうセンチメートル）

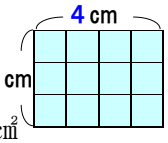

一辺の長さ × 一辺の長さ ＝ 正方形の面積

式 3 × 3 ＝9

A. 9 cm²

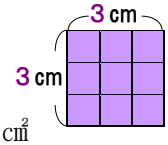

面積の公式カード①　筆算工房こつこつ

名前（　　）

たての長さ × よこの長さ ＝ 長方形の面積

式 3 × 4 ＝12

A. 12 cm²
（へいほうセンチメートル）

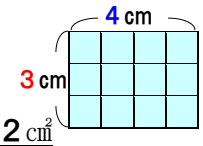

一辺の長さ × 一辺の長さ ＝ 正方形の面積

式 3 × 3 ＝9

A. 9 cm²

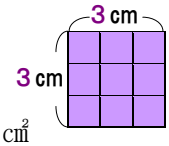

面積の公式カード①　筆算工房こつこつ

名前（　　）

たての長さ × よこの長さ ＝ 長方形の面積

式 3 × 4 ＝12

A. 12 cm²
（へいほうセンチメートル）

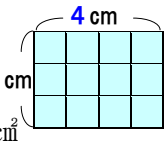

一辺の長さ × 一辺の長さ ＝ 正方形の面積

式 3 × 3 ＝9

A. 9 cm²

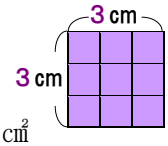

面積の公式カード①　筆算工房こつこつ

名前（　　）

たての長さ × よこの長さ ＝ 長方形の面積

式 3 × 4 ＝12

A. 12 cm²
（へいほうセンチメートル）

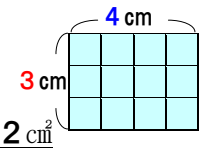

一辺の長さ × 一辺の長さ ＝ 正方形の面積

式 3 × 3 ＝9

A. 9 cm²

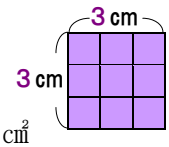

面積の公式カード①　筆算工房こつこつ

名前（　　）

たての長さ × よこの長さ ＝ 長方形の面積

式 3 × 4 ＝12

A. 12 cm²
（へいほうセンチメートル）

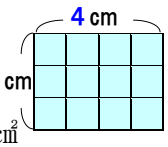

一辺の長さ × 一辺の長さ ＝ 正方形の面積

式 3 × 3 ＝9

A. 9 cm²

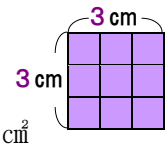

面積の公式カード①　筆算工房こつこつ