名前（　　）　筆算工房こつこつ

【円周率】

円の周りの長さ(円周)が、直径の長さの何倍になっているかを表す数を円周率といいます。
どんな大きさの円でも、円周率は 3.14159…となり、ふつうは 3.14 を使います。
つまり、直径の長さがわかれば、円周の長さもわかります。

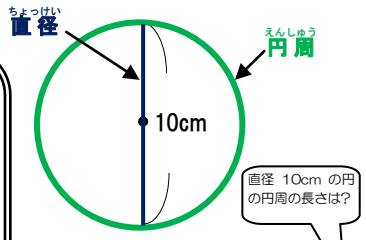

円周 ＝ 直径 × 円周率(3.14)

10 × 3.14 ＝ 31.4

A.　31.4cm

名前（　　）　筆算工房こつこつ

【円周率】

円の周りの長さ(円周)が、直径の長さの何倍になっているかを表す数を円周率といいます。
どんな大きさの円でも、円周率は 3.14159…となり、ふつうは 3.14 を使います。
つまり、直径の長さがわかれば、円周の長さもわかります。

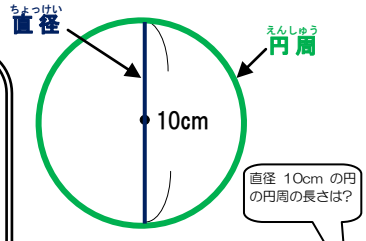

円周 ＝ 直径 × 円周率(3.14)

10 × 3.14 ＝ 31.4

A.　31.4cm

名前（　　）　筆算工房こつこつ

【円周率】

円の周りの長さ(円周)が、直径の長さの何倍になっているかを表す数を円周率といいます。
どんな大きさの円でも、円周率は 3.14159…となり、ふつうは 3.14 を使います。
つまり、直径の長さがわかれば、円周の長さもわかります。

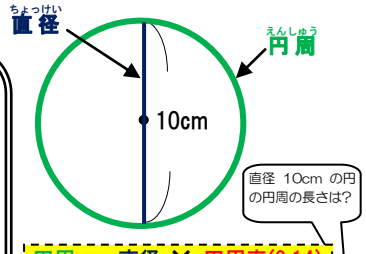

円周 ＝ 直径 × 円周率(3.14)

10 × 3.14 ＝ 31.4

A.　31.4cm

名前（　　）　筆算工房こつこつ

【円周率】

円の周りの長さ(円周)が、直径の長さの何倍になっているかを表す数を円周率といいます。
どんな大きさの円でも、円周率は 3.14159…となり、ふつうは 3.14 を使います。
つまり、直径の長さがわかれば、円周の長さもわかります。

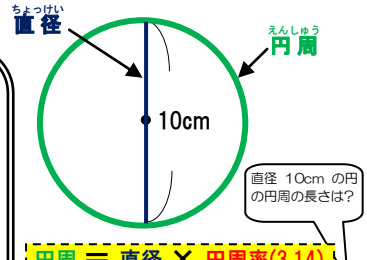

円周 ＝ 直径 × 円周率(3.14)

10 × 3.14 ＝ 31.4

A.　31.4cm

名前（　　）　筆算工房こつこつ

【円周率】

円の周りの長さ(円周)が、直径の長さの何倍になっているかを表す数を円周率といいます。
どんな大きさの円でも、円周率は 3.14159…となり、ふつうは 3.14 を使います。
つまり、直径の長さがわかれば、円周の長さもわかります。

円周 ＝ 直径 × 円周率(3.14)

10 × 3.14 ＝ 31.4

A.　31.4cm

名前（　　）　筆算工房こつこつ

【円周率】

円の周りの長さ(円周)が、直径の長さの何倍になっているかを表す数を円周率といいます。
どんな大きさの円でも、円周率は 3.14159…となり、ふつうは 3.14 を使います。
つまり、直径の長さがわかれば、円周の長さもわかります。

円周 ＝ 直径 × 円周率(3.14)

10 × 3.14 ＝ 31.4

A.　31.4cm

名前（　　）　筆算工房こつこつ

【円周率】

円の周りの長さ(円周)が、直径の長さの何倍になっているかを表す数を円周率といいます。
どんな大きさの円でも、円周率は 3.14159…となり、ふつうは 3.14 を使います。
つまり、直径の長さがわかれば、円周の長さもわかります。

円周 ＝ 直径 × 円周率(3.14)

10 × 3.14 ＝ 31.4

A.　31.4cm

名前（　　）　筆算工房こつこつ

【円周率】

円の周りの長さ(円周)が、直径の長さの何倍になっているかを表す数を円周率といいます。
どんな大きさの円でも、円周率は 3.14159…となり、ふつうは 3.14 を使います。
つまり、直径の長さがわかれば、円周の長さもわかります。

円周 ＝ 直径 × 円周率(3.14)

10 × 3.14 ＝ 31.4

A.　31.4cm