# さいころ筆算⑤ たし算・ひき算（３けた）	正十二面体	名前	

この展開図を組み立てると、
下のような立体ができます。

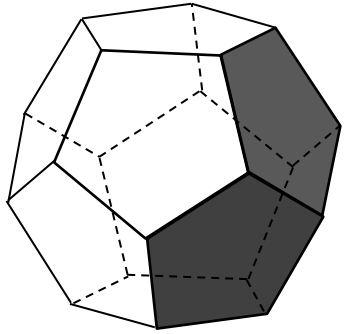

・組み立てたら、辺のところに筆算問題ができます。
・①～⑤の回答欄に問題と答えを書きましょう。たしかめに、切りぬいて組み立ててもいいです。

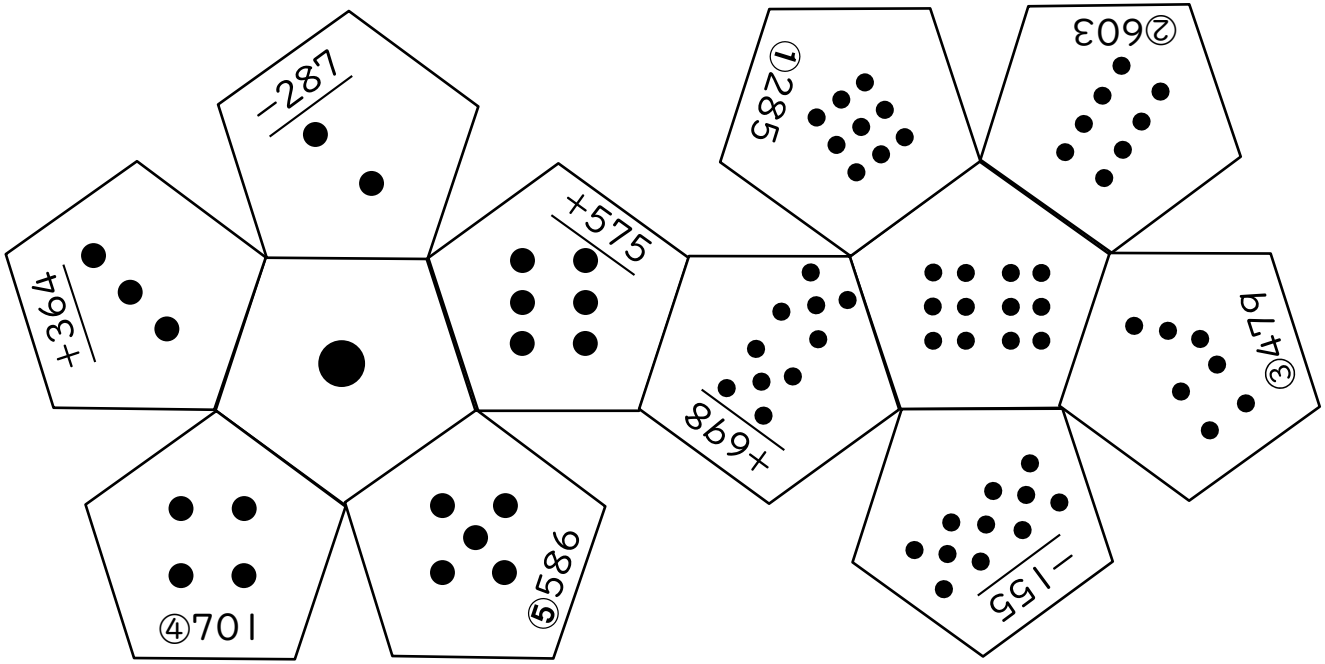

①			

②			

③			

④			

⑤			

さいころ筆算⑤

たし算・ひき算（３けた）

正十二面体

名前

この展開図を組み立てると、下のような立体ができます。

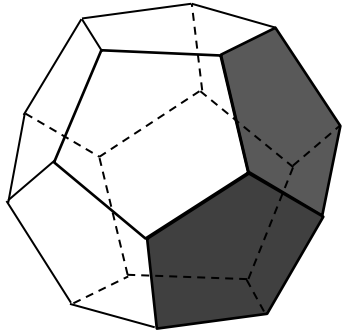

・組み立てたら、辺のところに筆算問題ができます。

・①～⑤の回答欄に問題と答えを書きましょう。たしかめに、切りぬいて組み立ててもいいです。

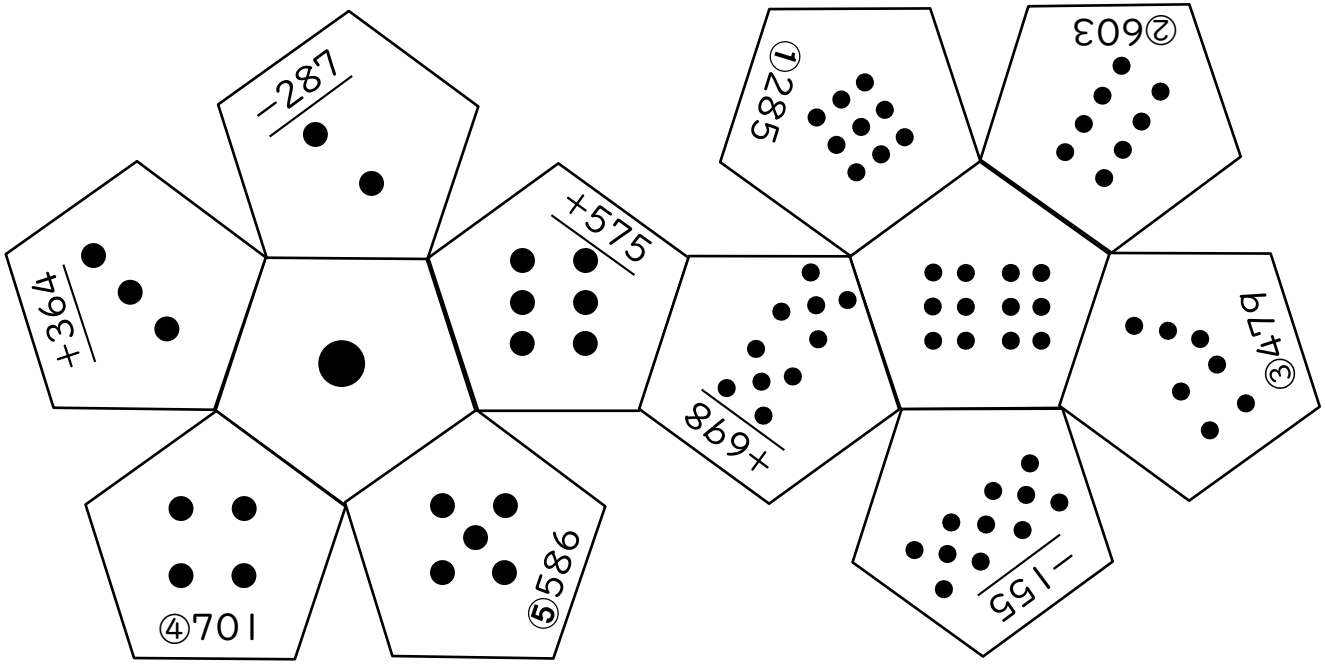

①	2	8	5
+	5	7	5
	8	6	0

②	6	0	3
−	2	8	7
	3	1	6

③	4	7	9
+	3	6	4
	8	4	3

④	7	0	1
−	1	5	5
	5	4	6

⑤	5	8	6
+	6	9	8
1	2	8	4