おもしろ筆算	さいころ筆算③ かけ算（３けた×３けた）	せいしめんたい 正四面体	名前

この展開図を組み立てると、
下のような立体ができます。

・組み立てたら、辺のところに筆算問題ができます。
・①～③の回答欄に問題と答えをかきましょう。
・たしかめに、切りぬいて組み立ててもいいです。

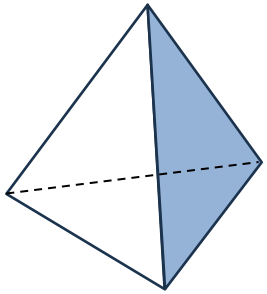

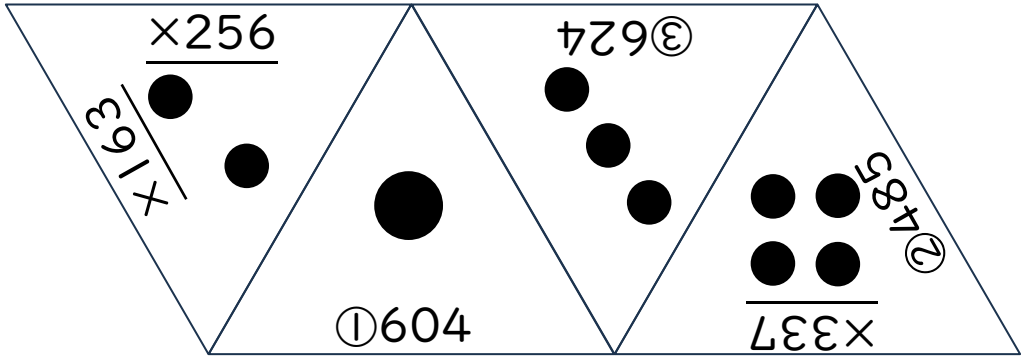

①

×

②

×

③

×

おもしろ筆算	さいころ筆算③ かけ算（３けた×３けた）	せいしめんたい 正四面体	名前

この展開図を組み立てると、
下のような立体ができます。

・組み立てたら、辺のところに筆算問題ができます。
・①～③の回答欄に問題と答えをかきましょう。
・たしかめに、切りぬいて組み立ててもいいです。

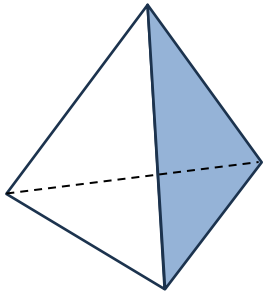

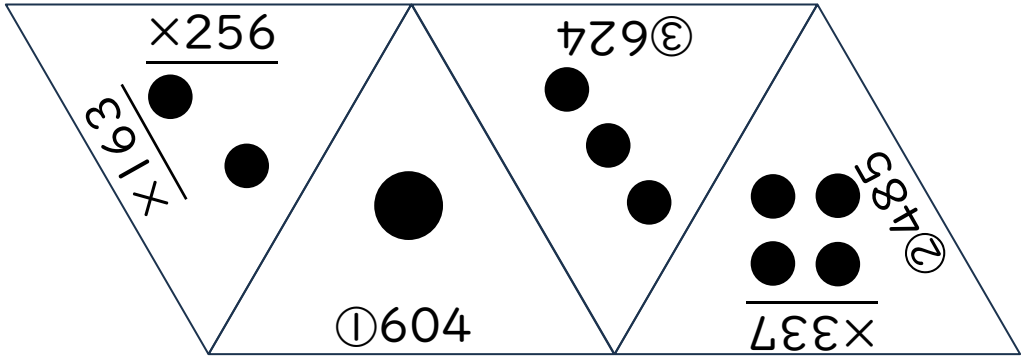

①				6	0	4
			×	3	3	7
			4	2	2	8
		1	8	1	2	
	1	8	1	2		
	2	0	3	5	4	8

②				4	8	5
			×	1	6	3
			1	4	5	5
		2	9	1	0	
		4	8	5		
		7	9	0	5	5

③				6	2	4
			×	2	5	6
			3	7	4	4
		3	1	2	0	
	1	2	4	8		
	1	5	9	7	4	4