さいころ筆算④

たし算・ひき算・かけ算・わり算

正八面体

名前

この展開図を組み立てると、下のような立体ができます。

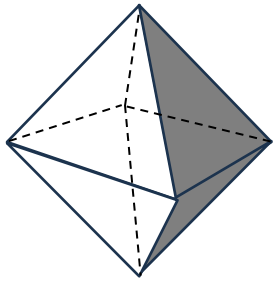

・組み立てたら、辺のところに筆算問題ができます。
・①～④の回答欄に問題と答えをかきましょう。
・使わない数字もあります。
・たしかめに、切りぬいて組み立ててもいいです。

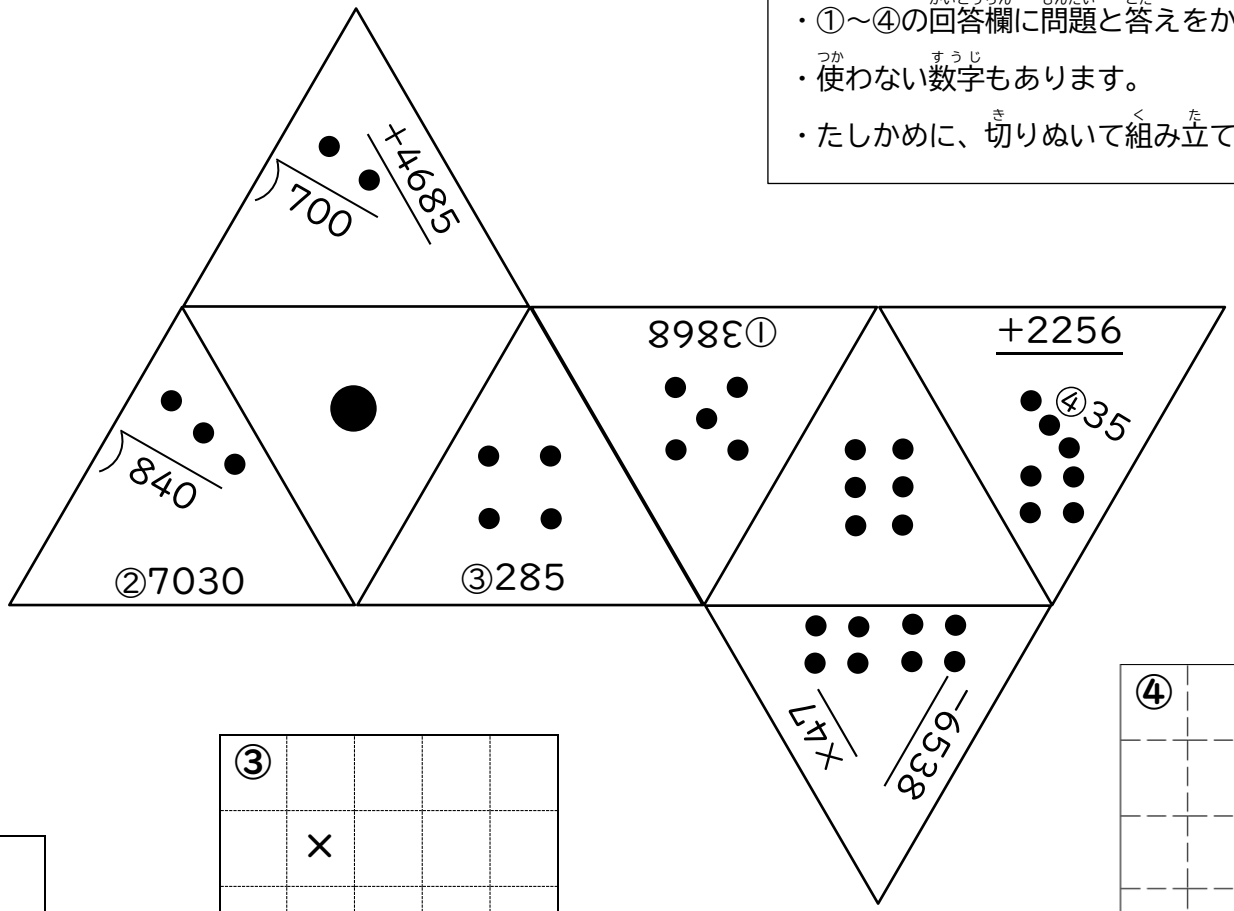

①				
+				

②				
−				

③				
	×			

④					

さいころ筆算④

たし算・ひき算・かけ算・わり算

正八面体

名前

この展開図を組み立てると、下のような立体ができます。

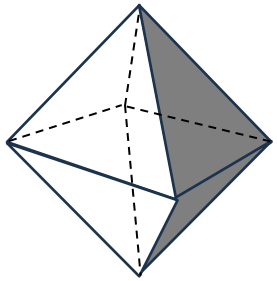

・組み立てたら、辺のところに筆算問題ができます。
・①～④の回答欄に問題と答えをかきましょう。
・使わない数字もあります。
・たしかめに、切りぬいて組み立ててもいいです。

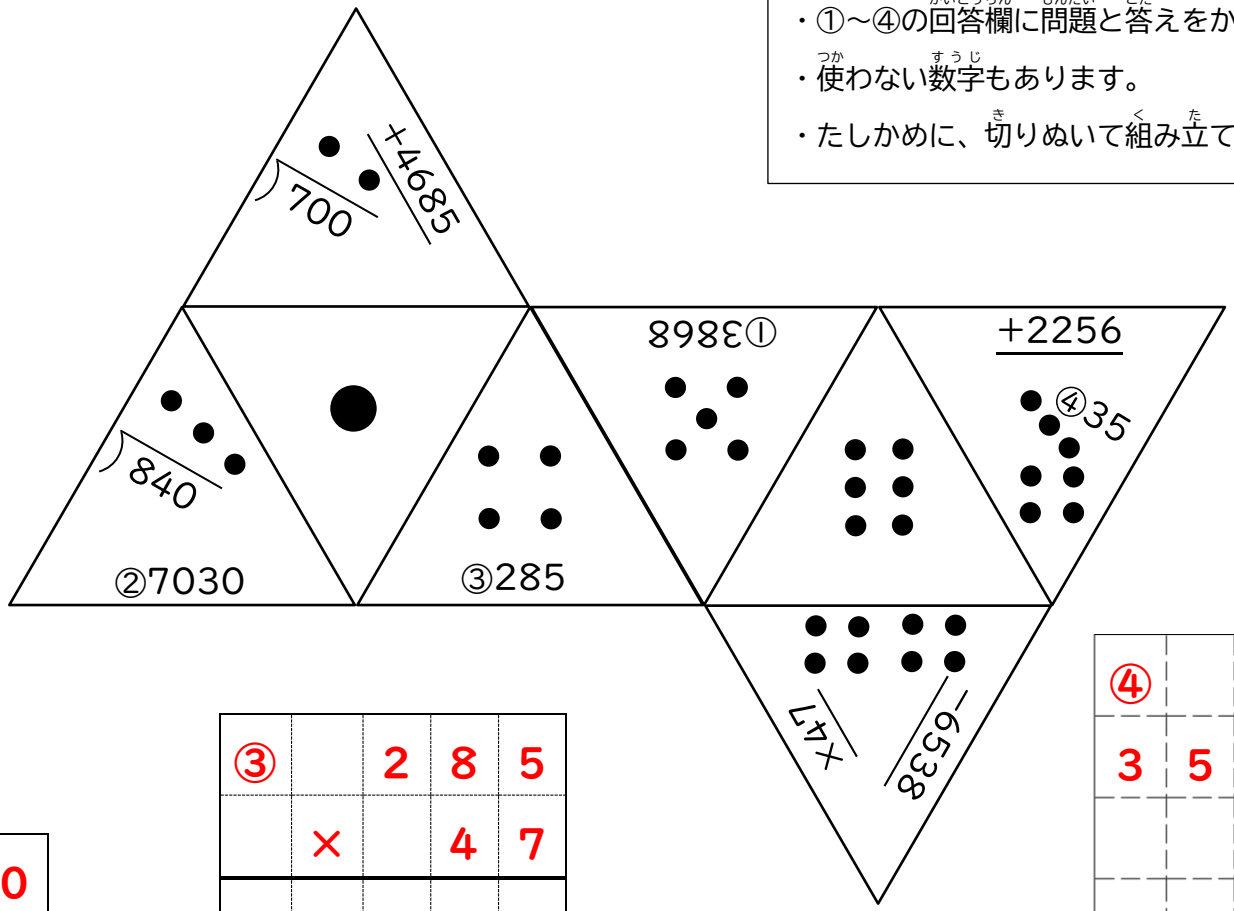

①	3	8	6	8
+	4	6	8	5
	8	5	5	3

②	7	0	3	0
−	6	5	3	8
		4	9	2

③		2	8	5
	×		4	7
	1	9	9	5
1	1	4	0	
1	3	3	9	5

④				2	4
3	5	)	8	4	0
			7	0	
			1	4	0
			1	4	0
					0