筆算工房こつこつ　　月　　日

すうじあて筆算⑩	名前	

※点線のワクのなかにある数字のカードを、
もとの問題になるようにあてはめます。

①



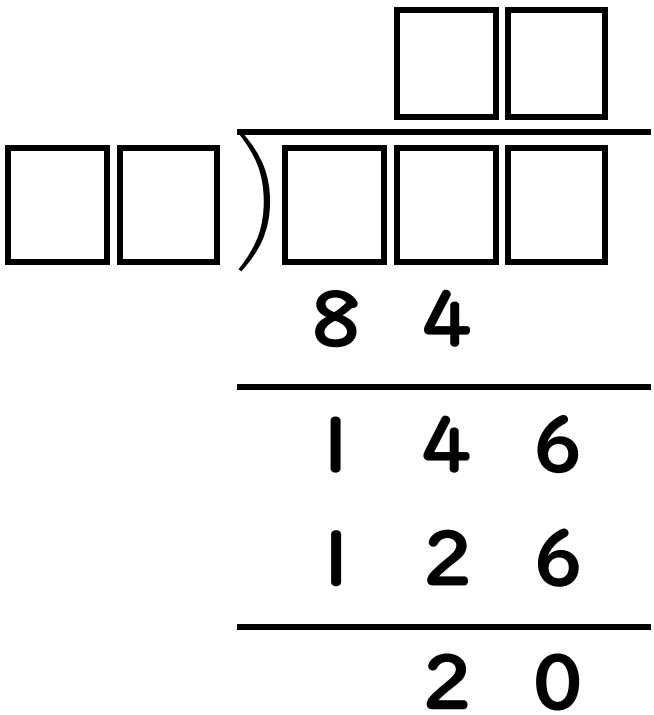

②



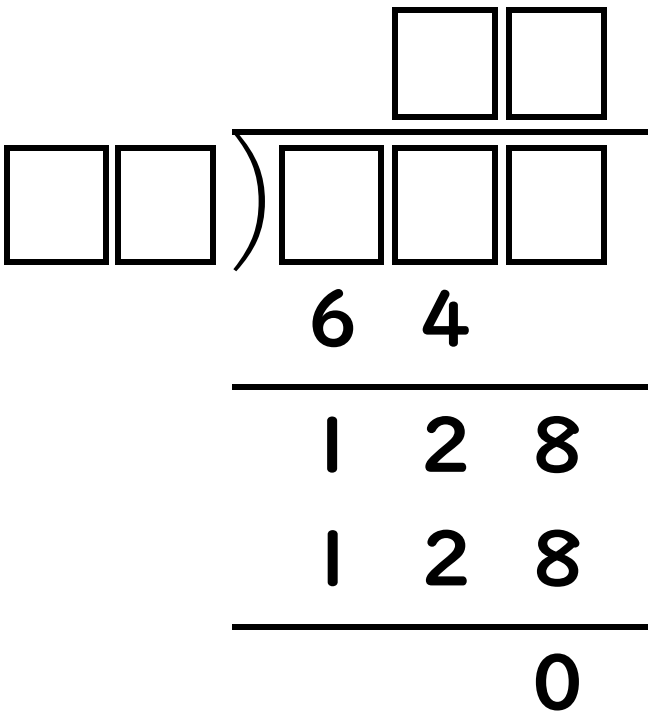

筆算工房こつこつ　　月　　日

すうじあて筆算⑩

名前

※点線のワクのなかにある数字のカードを、
もとの問題になるようにあてはめます。

①



②



			2	3	
4	2	)	9	8	6
			8	4	
			1	4	6
			1	2	6
				2	0

			2	4	
3	2	)	7	6	8
			6	4	
			1	2	8
			1	2	8
					0