筆算工房こつこつ　　月　　日

すうじあて筆算①

名前

※点線のワクの中にある数字のカードを、もとの問題になるようにあてはめます。

①

0　1　3　6　2

$$\begin{array}{r} \square\square \\ +\ 83 \\ \hline \square\square\square \end{array}$$

②

0　1　4　2　5　7

$$\begin{array}{r} \square\square\square \\ +\ 454 \\ \hline \square\square\square \end{array}$$

③

7　2　0　8　5　2

$$\begin{array}{r} \square\square\square \\ +\ 23 \\ \hline \square\square\square \end{array}$$

筆算工房こつこつ

月　　日

すうじあて筆算①

名前

※点線のワクの中にある数字のカードを、もとの問題になるようにあてはめます。

①



	2	3
＋	8	3
1	0	6

②



	1	2	0
＋	4	5	4
	5	7	4

③



	2	5	7
＋		2	3
	2	8	0