筆算工房こつこつ　　月　　日

すうじあて筆算⑦	名前	

※点線のワクのなかにある数字のカードを、
もとの問題になるようにあてはめます。

①



$$
\begin{array}{r}
\square\square\square \\
\times \quad \square\square \\
\hline
2051 \\
2637 \\
\hline
28421
\end{array}
$$

②



$$
\begin{array}{r}
\square\square\square \\
\times \quad \square\square\square \\
\hline
648 \\
324 \\
432 \\
\hline
47088
\end{array}
$$

筆算工房こつこつ　　月　　日

すうじあて筆算⑦	名 前	

※点線のワクのなかにある数字のカードを、
もとの問題になるようにあてはめます。

①



		2	9	3
×			9	7
	2	0	5	1
2	6	3	7	
2	8	4	2	1

②



		1	0	8
×		4	3	6
		6	4	8
	3	2	4	
4	3	2		
4	7	0	8	8