筆算工房こつこつ　　月　　日

すうじあて筆算⑨	名前	

※点線のワクのなかにある数字のカードを、
もとの問題になるようにあてはめます。

①



②



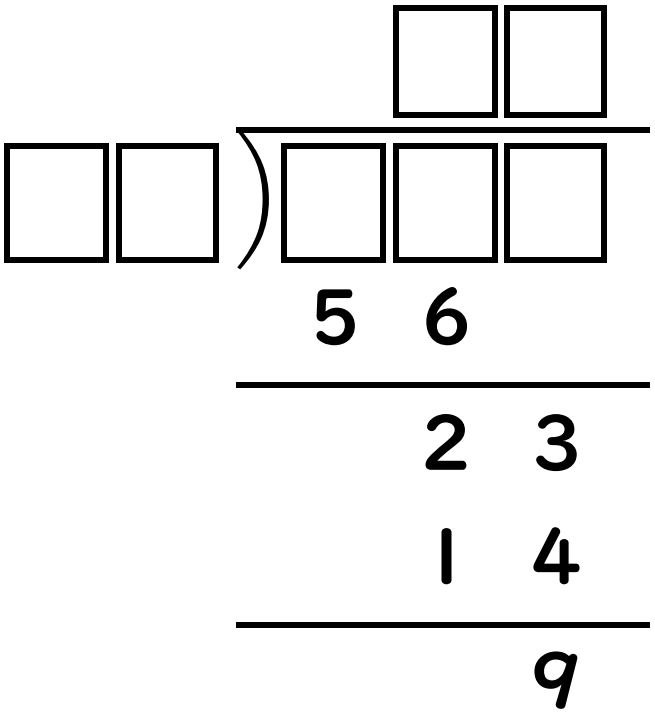

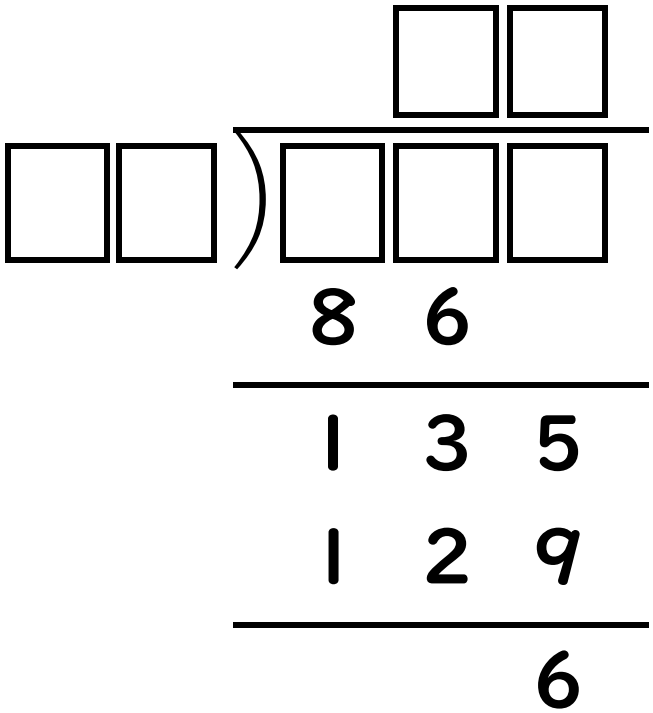

すうじあて筆算⑨	名前	

※点線のワクのなかにある数字のカードを、
もとの問題になるようにあてはめます。

①



②



			4	1
1	4	)	5	8	3
			5	6	
				2	3
				1	4
					9

			2	3
4	3	)	9	9	5
			8	6	
			1	3	5
			1	2	9
					6