筆算工房こつこつ

月　　日

すうじあて筆算④

名前

※点線のワクの中にある数字のカードを、もとの問題になるようにあてはめます。

①



□□□
－　6　5
―――――
　　□□

②



□□□
－　8　7
―――――
　　□□

③



□□□
－　1　5　3
―――――
□□□

筆算工房こつこつ

月　　日

すうじあて筆算④

名前

※点線のワクの中にある数字のカードを、もとの問題になるようにあてはめます。

①



	1	3	9
−		6	5
		7	4

②



	1	0	4
−		8	7
		1	7

③



	5	8	3
−	1	5	3
	4	3	0