筆算工房こつこつ

月　　日

すうじあて筆算③

名前

※点線のワクの中にある数字のカードを、もとの問題になるようにあてはめます。

①

1 1 0 8 4 7

	□	□	□
	2	7	1
＋	2	5	5
	□	□	□

②

5 6 8 2 1 1 7

		2	5	6
		□	□	□
＋		1	9	7
	□	□	□	□

③

8 0 6 1 6 8 2 3

	4	0	8	7
	□	□	□	□
＋	2	5	6	9
	□	□	□	□

筆算工房こつこつ

月　　日

すうじあて筆算③

名前

※点線のワクの中にある数字のカードを、もとの問題になるようにあてはめます。

①



	1	8	4
	2	7	1
＋	2	5	5
	7	1	0

②

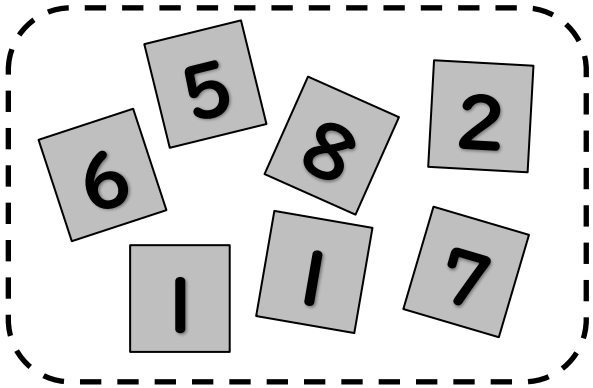

	2	5	6
	7	6	5
＋	1	9	7
1	2	1	8

③



	4	0	8	7
	1	6	3	0
＋	2	5	6	9
	8	2	8	6